Ücretsiz · Çözümlü · Yazdırılabilir

# BİLSEM Görsel bellek ve sayı dizisi Soruları

Konu özeti, 4 tam çözümlü örnek, 3 seviyede 24 alıştırma ve her sorunun adım adım çözümü

1. sınıf | 2. sınıf | 3. sınıf






**Tamakala Games · Hilmi ve Zaman Rüzgârı**
Video ders ve sınırsız pratik: tamakalagames.com/rehber/bilsem/gorsel-bellek-sorulari/

# Bu kitapçık nasıl kullanılır?

**Sevgili veli,** bu kitapçık çocuğunuzun görsel bellek ve sayı dizisi sorularında **nasıl düşüneceğini** öğrenmesi için hazırlandı. Amaç çok soru çözmek değil, kuralı görmeyi alışkanlık hâline getirmektir.

1. **Günde 10 dakika, 3-4 soru** yeterli. Yorulduğunda bırakın.
2. Önce **konu özeti**ni ve **çözümlü örnekler**i birlikte okuyun (sayfa 3-6).
3. Alıştırmalar üç seviyededir: **Isınma** (1. sınıf düzeyi), **Orta** (2. sınıf), **Zor** (3. sınıf). Çocuğunuzun düzeyinden başlayın.
4. Çocuk cevabını yazdıktan sonra **nasıl düşündüğünü** kendi cümlesiyle anlatsın. Bu, doğru cevaptan daha önemlidir.
5. Çözümler sayfa 19-26'da, cevap anahtarı son sayfada.

**Sınırsız pratik:** tamakalagames.com/rehber/bilsem/gorsel-bellek-sorulari/ sayfasında aynı konudan her seferinde yeni sorular çözebilir, anında geri bildirim ve adım adım çözüm görebilirsiniz.

# İçindekiler

1 Konu özeti ve kurallar · s. 3
2 Adım adım çözüm yolu · s. 4
3 Çözümlü örnekler · s. 5-6
4 Isınma alıştırmaları · s. 7-10
5 Orta alıştırmalar · s. 11-14
6 Zor alıştırmalar · s. 15-18
7 Açıklamalı çözümler · s. 19-26
8 Sık hatalar, cevap anahtarı · s. 27-28

Bu kitapçıktaki sorular Tamakala Games tarafından hazırlanmış **özgün hazırlık sorularıdır**; gerçek ya da çıkmış sınav soruları değildir. Tamakala Games'in MEB veya BİLSEM ile resmî bir bağlantısı yoktur.

# Görsel bellek ve sayı dizisi sorusu nedir?

**Görsel bellek** sorusunda bir tabloda birkaç renkli şekil kısa bir süre gösterilir, sonra kaybolur. Ardından "Hangisi vardı?" ya da "Bu şekil hangi kutudaydı?" diye sorulur. Yanlış şıklar genellikle rengi ya da şekli tutup öbürünü tutmayan taşlardır.

**Sayı dizisi** sorusunda birkaç sayı sırayla verilir (tablet uygulamalarında bazen sesli okunur) ve çocuktan bu sayıları aynı sırayla ya da **tersten** tekrarlaması istenir. Sınıf düzeyi arttıkça dizi uzar ve tersten tekrar soruları artar.

### Sınıflara göre

- **1. sınıf:** 3-4 şekil ve "hangisi vardı?" soruları; sayı dizileri kısa ve düz sırayla tekrarlanır.
- **2. sınıf:** 5-6 şekil ve "hangi kutudaydı?" gibi yer soruları; sayı dizileri uzar, tersten tekrar başlar.
- **3. sınıf:** Kalabalık tablolar ve benzer renkli şekiller; uzun sayı dizileri ve tersten tekrar soruları öne çıkar.

# Kural türleri

### Renk ve şekil birlikte

"Kırmızı daire, yeşil yıldız" diye ikisini birlikte söyleyin; yalnız şekli hatırlamak tuzağa düşürür.

### Yeri ekleyin

"Üstte, ortada, sol altta" diye yeri de söyleyin; nerede sorusu gelebilir.

### İkişerli gruplayın

8, 3, 9, 7, 1 dizisini "83, 97, 1" diye gruplamak akılda tutmayı kolaylaştırır.

### İçinizden tekrar edin

Gösterim süresince grupları içinizden birkaç kez tekrarlayın.

# Adım adım çözüm yolu

1. **Hazır olun.** Gösterim başlamadan dikkatinizi ekrana verin; süre kısadır.
2. **Sesli ya da içinizden adlandırın.** Her şekli rengi ve şekliyle birlikte söyleyin.
3. **Yeri ekleyin.** "Kırmızı daire üstte, yeşil yıldız ortada."
4. **Sayıları gruplayın.** Diziyi ikişerli parçalara bölüp tekrar edin.
5. **Soruyu dikkatle okuyun.** Düz mü, tersten mi? Hangisi vardı mı, nerede mi?
6. **Şıkları eleyin.** Rengi ya da şekli tutmayan, sırası değişmiş şıkları çıkarın.

## Birlikte çözelim

★ **Bu şekillerden hangisi ızgarada YOKTU?**

1. 6 saniye bak, sonra bu resmi kapat



2. Şimdi cevapla



A 

B 

C 

D 

## Çözümlü örnek · Isınma (1. sınıf)

**Önce 6 saniye bakılan resim:**



**Bu şekillerden hangisi ızgarada YOKTU?**

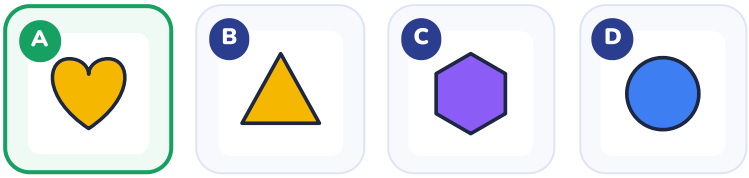


1. Şekiller görününce her birinin **adını ve rengini** içinden söyle: "sarı üçgen, mor altıgen...".
2. Izgarada olanlar: sarı üçgen, mor altıgen, mavi daire.
3. Kalp ızgarada hiç yoktu. Yani **sarı kalp** görünmedi.
4. Doğru cevap **A**.

## Çözümlü örnek · Orta (2. sınıf)

**Önce 5 saniye bakılan resim:**




**Gördüğün sayıları sırayla hangisi doğru gösteriyor?**

A) 4 8 1 9

B) 2 4 1 9

C) 8 4 1 9

D) 9 1 4 8

1. Kartları görünce sayıları **gruplara ayırıp** içinden tekrar et: 84 – 19. Gruplar tek tek rakamlardan daha kolay akılda kalır.
2. Gösterilen sıra: **8 4 1 9**.
3. Şıkları eleyelim: A (iki sayının yeri değişmiş); B (bir sayı hiç gösterilmedi); D (tersten yazılmış). Doğru cevap **C**.

## Çözümlü örnek · Orta (2. sınıf)

**Önce 5 saniye bakılan resim:**




**Gördüğün sayıları sırayla hangisi doğru gösteriyor?**

A) 9 5 4 2 3

B) 9 5 2 4 3

C) 9 6 2 4 3

D) 3 4 2 5 9

1. Kartları görünce sayıları **gruplara ayırıp** içinden tekrar et: 952 – 43. Gruplar tek tek rakamlardan daha kolay akılda kalır.
2. Gösterilen sıra: **9 5 2 4 3**.
3. Şıkları eleyelim: A (iki sayının yeri değişmiş); C (bir sayı hiç gösterilmedi); D (tersten yazılmış). Doğru cevap **B**.

## Çözümlü örnek · Zor (3. sınıf)

**Önce 4 saniye bakılan resim:**




**Gördüğün sayıları sırayla hangisi doğru gösteriyor?**

A) 2 7 6 4 8 5

B) 5 8 4 6 2 7

C) 5 8 4 6 7 2

D) 5 9 4 6 7 2

1. Kartları görünce sayıları **gruplara ayırıp** içinden tekrar et: 58 – 46 – 72. Gruplar tek tek rakamlardan daha kolay akılda kalır.
2. Gösterilen sıra: **5 8 4 6 7 2**.
3. Şıkları eleyelim: A (tersten yazılmış); B (iki sayının yeri değişmiş); D (bir sayı hiç gösterilmedi). Doğru cevap **C**.

## 1 Sarı kutuda hangi şekil vardı?

**1. 6 saniye bak, sonra bu resmi kapat**



**2. Şimdi cevapla**




A 

B 

C 

D 

Cevabın: _____ Nasıl düşündün? _____

## 2 Sarı kutuda hangi şekil vardı?

**1. 6 saniye bak, sonra bu resmi kapat**

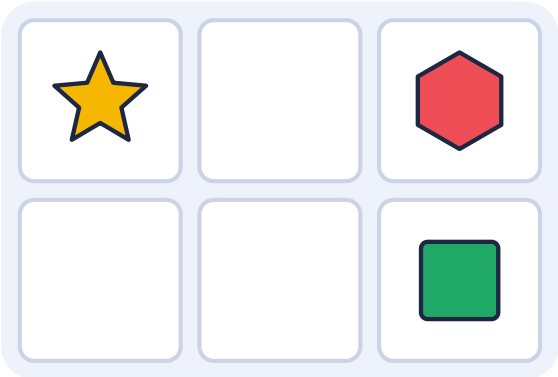

**2. Şimdi cevapla**




A 

B 

C 

D 

Cevabın: _____ Nasıl düşündün? _____

## 3 Gördüğün sayıları sırayla hangisi doğru gösteriyor?

**1. 6 saniye bak, sonra bu resmi kapat**




**2. Şimdi cevapla**




A) 7954 B) 9754 C) 4579 D) 1754

Cevabın: _____ Nasıl düşündün? _____

## 4 Gördüğün sayıları sırayla hangisi doğru gösteriyor?

**1. 6 saniye bak, sonra bu resmi kapat**




**2. Şimdi cevapla**




A) 2349 B) 2345 C) 5432 D) 2435

Cevabın: _____ Nasıl düşündün? _____

## 5 Bu şekillerden hangisi ızgarada YOKTU?

**1. 6 saniye bak, sonra bu resmi kapat**



**2. Şimdi cevapla**



A 

B 

C 

D 

Cevabın: _____ Nasıl düşündün? _____

## 6 Bu şekillerden hangisi ızgarada YOKTU?

**1. 6 saniye bak, sonra bu resmi kapat**

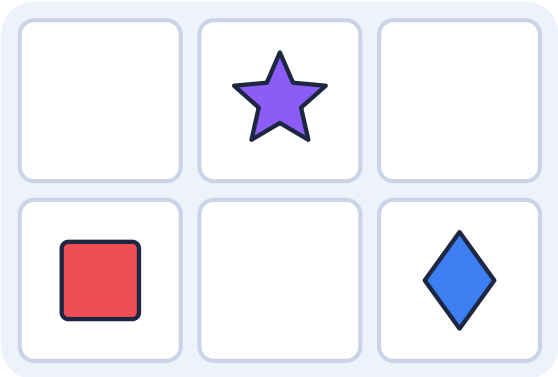

**2. Şimdi cevapla**



A 

B 

C 

D 

Cevabın: _____ Nasıl düşündün? _____

## 7 Sarı kutuda hangi şekil vardı?

**1. 6 saniye bak, sonra bu resmi kapat**



**2. Şimdi cevapla**




A 

B 

C 

D 

Cevabın: _____ Nasıl düşündün? _____

## 8 Sarı kutuda hangi şekil vardı?

**1. 6 saniye bak, sonra bu resmi kapat**

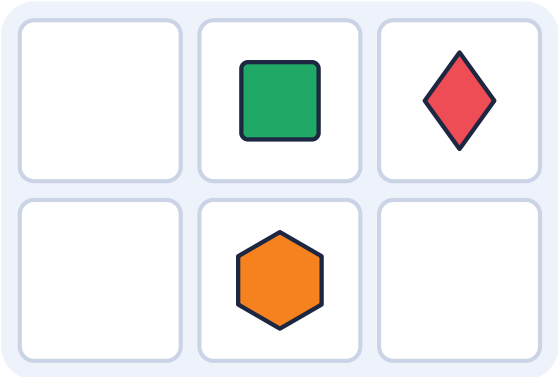

**2. Şimdi cevapla**




A 

B 

C 

D 

Cevabın: _____ Nasıl düşündün? _____

## 9 Gördüğün sayıları sırayla hangisi doğru gösteriyor?

**1. 5 saniye bak, sonra bu resmi kapat**




**2. Şimdi cevapla**




A) 64795
B) 46792
C) 46795
D) 59764

Cevabın: _____ Nasıl düşündün? _____

## 10 Sarı kutuda hangi şekil vardı?

**1. 5 saniye bak, sonra bu resmi kapat**

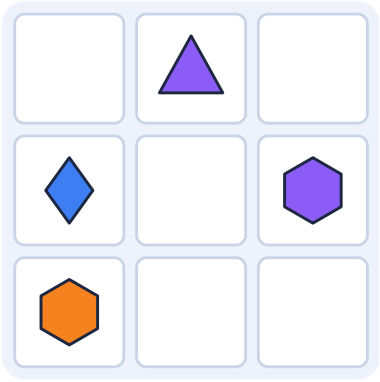

**2. Şimdi cevapla**




A) 
B) 
C) 
D) 

Cevabın: _____ Nasıl düşündün? _____

## 11 Gördüğün sayıları sırayla hangisi doğru gösteriyor?

**1. 5 saniye bak, sonra bu resmi kapat**




**2. Şimdi cevapla**




A) 21793 B) 27183 C) 39172 D) 27193

Cevabın: _____ Nasıl düşündün? _____

## 12 Bu şekillerden hangisi ızgarada YOKTU?

**1. 5 saniye bak, sonra bu resmi kapat**

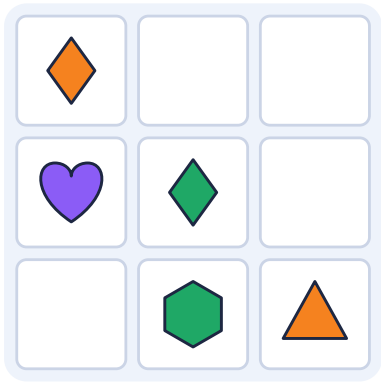

**2. Şimdi cevapla**



A) 

B) 

C) 

D) 

Cevabın: _____ Nasıl düşündün? _____

## 13 Bu şekillerden hangisi ızgarada YOKTU?

**1. 5 saniye bak, sonra bu resmi kapat**

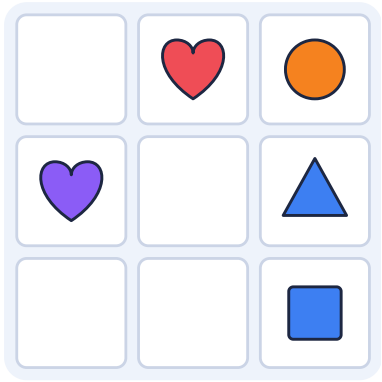

**2. Şimdi cevapla**



A 

B 

C 

D 

Cevabın: _____ Nasıl düşündün? _____

## 14 Gördüğün sayıları sırayla hangisi doğru gösteriyor?

**1. 5 saniye bak, sonra bu resmi kapat**




**2. Şimdi cevapla**




A 5812

B 5312

C 2135

D 5132

Cevabın: _____ Nasıl düşündün? _____

## 15 Gördüğün sayıları sırayla hangisi doğru gösteriyor?

**1. 5 saniye bak, sonra bu resmi kapat**




**2. Şimdi cevapla**

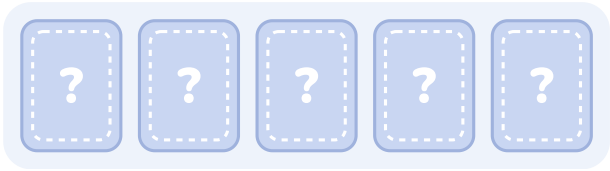


A) 82519 B) 91528 C) 91568 D) 91258

Cevabın: _____ Nasıl düşündün? _____

## 16 Gördüğün sayıları sırayla hangisi doğru gösteriyor?

**1. 5 saniye bak, sonra bu resmi kapat**




**2. Şimdi cevapla**

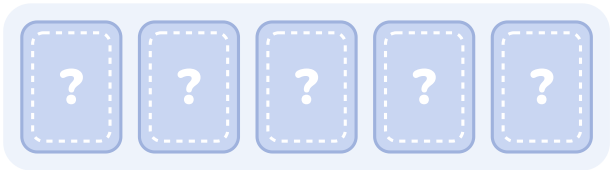


A) 26498 B) 26489 C) 26485 D) 98462

Cevabın: _____ Nasıl düşündün? _____

## 17 Gördüğün sayıları TERSTEN (sondan başa doğru) hangisi doğru sıralar?

**1. 4 saniye bak, sonra bu resmi kapat**




**2. Şimdi cevapla**




A) 35876

B) 67835

C) 52876

D) 53876

Cevabın: _____ Nasıl düşündün? _____

## 18 Sarı kutuda hangi şekil vardı?

**1. 4 saniye bak, sonra bu resmi kapat**



**2. Şimdi cevapla**




A) 

B) 

C) 

D) 

Cevabın: _____ Nasıl düşündün? _____

## 19 Bu şekillerden hangisi ızgarada YOKTU?

**1. 4 saniye bak, sonra bu resmi kapat**



**2. Şimdi cevapla**



A 

B 

C 

D 

Cevabın: _____ Nasıl düşündün? _____

## 20 Bu şekillerden hangisi ızgarada YOKTU?

**1. 4 saniye bak, sonra bu resmi kapat**

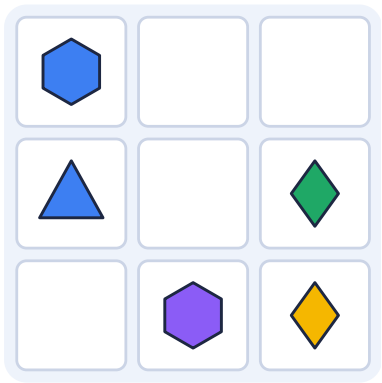

**2. Şimdi cevapla**



A 

B 

C 

D 

Cevabın: _____ Nasıl düşündün? _____

## 21 Gördüğün sayıları TERSTEN (sondan başa doğru) hangisi doğru sıralar?

**1. 4 saniye bak, sonra bu resmi kapat**




**2. Şimdi cevapla**

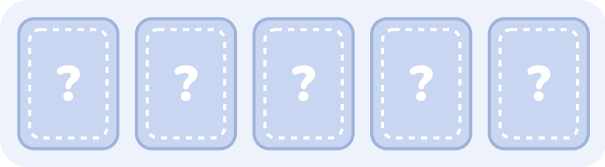


A) 78316 B) 61387 C) 61378 D) 61397

Cevabın: _____ Nasıl düşündün? _____

## 22 Gördüğün sayıları sırayla hangisi doğru gösteriyor?

**1. 4 saniye bak, sonra bu resmi kapat**




**2. Şimdi cevapla**




A) 253719 B) 417352 C) 235714 D) 253714

Cevabın: _____ Nasıl düşündün? _____

## 23 Sarı kutuda hangi şekil vardı?

**1. 4 saniye bak, sonra bu resmi kapat**

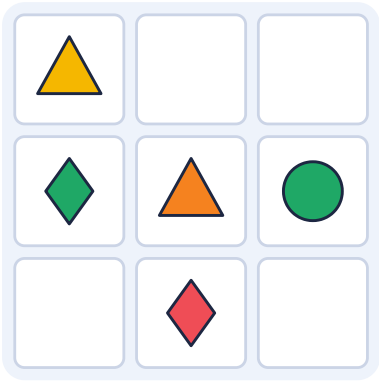

**2. Şimdi cevapla**




A 

B 

C 

D 

Cevabın: _____ Nasıl düşündün? _____

## 24 Sarı kutuda hangi şekil vardı?

**1. 4 saniye bak, sonra bu resmi kapat**



**2. Şimdi cevapla**




A 

B 

C 

D 

Cevabın: _____ Nasıl düşündün? _____



## Soru 1 · Cevap C

1. Şekiller görününce her birinin **adını ve rengini** içinden söyle: "kırmızı altıgen, sarı üçgen...".
2. Yerleri hatırlamak için ızgarayı sıra sıra tara ve kısa cümleler kur: "üst sırada ..., alt sırada ...".
3. Sarı kutu **üst sıranın orta kutusu**. Orada **kırmızı altıgen** vardı.
4. Diğer şıklar ya başka kutulardaki şekiller ya da rengi farklı bir şekil; yerine dikkat eden onları eler.
5. Doğru cevap **C**.

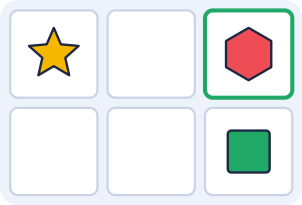

## Soru 2 · Cevap C

1. Şekiller görününce her birinin **adını ve rengini** içinden söyle: "yeşil kare, sarı yıldız...".
2. Yerleri hatırlamak için ızgarayı sıra sıra tara ve kısa cümleler kur: "üst sırada ..., alt sırada ...".
3. Sarı kutu **üst sıranın sağ kutusu**. Orada **kırmızı altıgen** vardı.
4. Diğer şıklar ya başka kutulardaki şekiller ya da rengi farklı bir şekil; yerine dikkat eden onları eler.
5. Doğru cevap **C**.




## Soru 3 · Cevap B

1. Kartları görünce sayıları **gruplara ayırıp** içinden tekrar et: 97 – 54. Gruplar tek tek rakamlardan daha kolay akılda kalır.
2. Gösterilen sıra: **9 7 5 4**.
3. Şıkları eleyelim: A (iki sayının yeri değişmiş); C (tersten yazılmış); D (bir sayı hiç gösterilmedi). Doğru cevap **B**.




## Soru 4 · Cevap B

1. Kartları görünce sayıları **gruplara ayırıp** içinden tekrar et: 23 – 45. Gruplar tek tek rakamlardan daha kolay akılda kalır.
2. Gösterilen sıra: **2 3 4 5**.
3. Şıkları eleyelim: A (bir sayı hiç gösterilmedi); C (tersten yazılmış); D (iki sayının yeri değişmiş). Doğru cevap **B**.



## Soru 5 · Cevap A

1. Şekiller görününce her birinin **adını ve rengini** içinden söyle: "kırmızı daire, yeşil baklava...".
2. Izgarada olanlar: kırmızı daire, yeşil baklava, turuncu üçgen, mavi kalp.
3. Altıgen ızgarada hiç yoktu. Yani **turuncu altıgen** görünmedi.
4. Doğru cevap **A**.

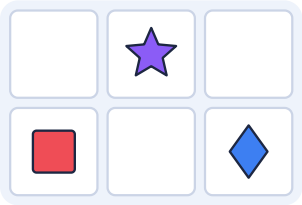

## Soru 6 · Cevap C

1. Şekiller görününce her birinin **adını ve rengini** içinden söyle: "kırmızı kare, mor yıldız...".
2. Izgarada olanlar: kırmızı kare, mor yıldız, mavi baklava.
3. Daire ızgarada hiç yoktu. Yani **mor daire** görünmedi.
4. Doğru cevap **C**.



## Soru 7 · Cevap B

1. Şekiller görününce her birinin **adını ve rengini** içinden söyle: "turuncu baklava, kırmızı yıldız...".
2. Yerleri hatırlamak için ızgarayı sıra sıra tara ve kısa cümleler kur: "üst sırada ..., alt sırada ...".
3. Sarı kutu **üst sıranın sağ kutusu**. Orada **kırmızı yıldız** vardı.
4. Diğer şıklar ya başka kutulardaki şekiller ya da rengi farklı bir şekil; yerine dikkat eden onları eler.
5. Doğru cevap **B**.

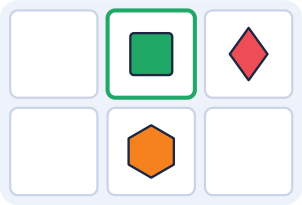

## Soru 8 · Cevap B

1. Şekiller görününce her birinin **adını ve rengini** içinden söyle: "yeşil kare, turuncu altıgen...".
2. Yerleri hatırlamak için ızgarayı sıra sıra tara ve kısa cümleler kur: "üst sırada ..., alt sırada ...".
3. Sarı kutu **üst sıranın orta kutusu**. Orada **yeşil kare** vardı.
4. Diğer şıklar ya başka kutulardaki şekiller ya da rengi farklı bir şekil; yerine dikkat eden onları eler.
5. Doğru cevap **B**.




## Soru 9 · Cevap C

1. Kartları görünce sayıları **gruplara ayırıp** içinden tekrar et: 467 – 95. Gruplar tek tek rakamlardan daha kolay akılda kalır.
2. Gösterilen sıra: **4 6 7 9 5**.
3. Şıkları eleyelim: A (iki sayının yeri değişmiş); B (bir sayı hiç gösterilmedi); D (tersten yazılmış). Doğru cevap **C**.

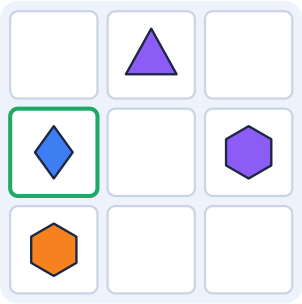

## Soru 10 · Cevap D

1. Şekiller görününce her birinin **adını ve rengini** içinden söyle: "turuncu altıgen, mor üçgen...".
2. Yerleri hatırlamak için ızgarayı sıra sıra tara ve kısa cümleler kur: "üst sırada ..., alt sırada ...".
3. Sarı kutu **orta sıranın sol kutusu**. Orada **mavi baklava** vardı.
4. Diğer şıklar ya başka kutulardaki şekiller ya da rengi farklı bir şekil; yerine dikkat eden onları eler.
5. Doğru cevap **D**.




## Soru 11 · Cevap D

1. Kartları görünce sayıları **gruplara ayırıp** içinden tekrar et: 271 – 93. Gruplar tek tek rakamlardan daha kolay akılda kalır.
2. Gösterilen sıra: **2 7 1 9 3**.
3. Şıkları eleyelim: A (iki sayının yeri değişmiş); B (bir sayı hiç gösterilmedi); C (tersten yazılmış). Doğru cevap **D**.



## Soru 12 · Cevap C

1. Şekiller görününce her birinin **adını ve rengini** içinden söyle: "yeşil baklava, turuncu üçgen...".
2. Izgarada olanlar: yeşil baklava, turuncu üçgen, yeşil altıgen, mor kalp, turuncu baklava.
3. Kalp vardı ama **sarı** değildi; şekli kadar rengini de hatırlamak gerekiyor. Yani **sarı kalp** görünmedi.
4. Doğru cevap **C**.



## Soru 13 · Cevap C

1. Şekiller görününce her birinin **adını ve rengini** içinden söyle: "kırmızı kalp, mavi kare...".
2. Izgarada olanlar: kırmızı kalp, mavi kare, mavi üçgen, turuncu daire, mor kalp.
3. Kalp vardı ama **sarı** değildi; şekli kadar rengini de hatırlamak gerekiyor. Yani **sarı kalp** görünmedi.
4. Doğru cevap **C**.




## Soru 14 · Cevap B

1. Kartları görünce sayıları **gruplara ayırıp** içinden tekrar et: 53 – 12. Gruplar tek tek rakamlardan daha kolay akılda kalır.
2. Gösterilen sıra: **5 3 1 2**.
3. Şıkları eleyelim: A (bir sayı hiç gösterilmedi); C (tersten yazılmış); D (iki sayının yeri değişmiş). Doğru cevap **B**.




## Soru 15 · Cevap B

1. Kartları görünce sayıları **gruplara ayırıp** içinden tekrar et: 915 – 28. Gruplar tek tek rakamlardan daha kolay akılda kalır.
2. Gösterilen sıra: **9 1 5 2 8**.
3. Şıkları eleyelim: A (tersten yazılmış); C (bir sayı hiç gösterilmedi); D (iki sayının yeri değişmiş). Doğru cevap **B**.




## Soru 16 · Cevap B

1. Kartları görünce sayıları **gruplara ayırıp** içinden tekrar et: 264 – 89. Gruplar tek tek rakamlardan daha kolay akılda kalır.
2. Gösterilen sıra: **2 6 4 8 9**.
3. Şıkları eleyelim: A (iki sayının yeri değişmiş); C (bir sayı hiç gösterilmedi); D (tersten yazılmış). Doğru cevap **B**.




## Soru 17 · Cevap D

1. Kartları görünce sayıları **gruplara ayırıp** içinden tekrar et: 678 – 35. Gruplar tek tek rakamlardan daha kolay akılda kalır.
2. Gösterilen sıra: **6 7 8 3 5**.
3. Tersten söylemek için sondan başla: son kart 5, ilk kart 6. Ters sıra: **5 3 8 7 6**.
4. Şıkları eleyelim: A (iki sayının yeri değişmiş); B (düz sıra, tersten değil); C (bir sayı hiç gösterilmedi). Doğru cevap **D**.



## Soru 18 · Cevap D

1. Şekiller görününce her birinin **adını ve rengini** içinden söyle: "sarı yıldız, mavi kalp...".
2. Yerleri hatırlamak için ızgarayı sıra sıra tara ve kısa cümleler kur: "üst sırada ..., alt sırada ...".
3. Sarı kutu **üst sıranın sağ kutusu**. Orada **mavi kalp** vardı.
4. Diğer şıklar ya başka kutulardaki şekiller ya da rengi farklı bir şekil; yerine dikkat eden onları eler.
5. Doğru cevap **D**.



## Soru 19 · Cevap A

1. Şekiller görününce her birinin **adını ve rengini** içinden söyle: "mavi yıldız, sarı baklava...".
2. Izgarada olanlar: mavi yıldız, sarı baklava, turuncu kalp, turuncu üçgen, sarı yıldız, kırmızı baklava.
3. Yıldız vardı ama **kırmızı** değildi; şekli kadar rengini de hatırlamak gerekiyor. Yani **kırmızı yıldız** görünmedi.
4. Doğru cevap **A**.

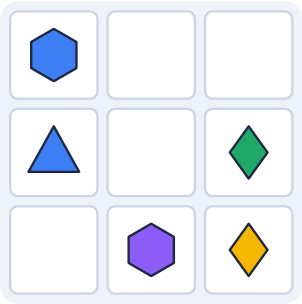

## Soru 20 · Cevap A

1. Şekiller görününce her birinin **adını ve rengini** içinden söyle: "sarı baklava, mavi altıgen...".
2. Izgarada olanlar: sarı baklava, mavi altıgen, mavi üçgen, yeşil baklava, mor altıgen.
3. Yıldız ızgarada hiç yoktu. Yani **mavi yıldız** görünmedi.
4. Doğru cevap **A**.




## Soru 21 · Cevap B

1. Kartları görünce sayıları **gruplara ayırıp** içinden tekrar et: 783 – 16. Gruplar tek tek rakamlardan daha kolay akılda kalır.
2. Gösterilen sıra: **7 8 3 1 6**.
3. Tersten söylemek için sondan başla: son kart 6, ilk kart 7. Ters sıra: **6 1 3 8 7**.
4. Şıkları eleyelim: A (düz sıra, tersten değil); C (iki sayının yeri değişmiş); D (bir sayı hiç gösterilmedi). Doğru cevap **B**.




## Soru 22 · Cevap D

1. Kartları görünce sayıları **gruplara ayırıp** içinden tekrar et: 25 – 37 – 14. Gruplar tek tek rakamlardan daha kolay akılda kalır.
2. Gösterilen sıra: **2 5 3 7 1 4**.
3. Şıkları eleyelim: A (bir sayı hiç gösterilmedi); B (tersten yazılmış); C (iki sayının yeri değişmiş). Doğru cevap **D**.

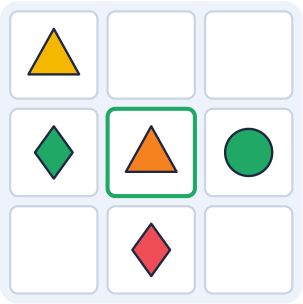

## Soru 23 · Cevap B

1. Şekiller görününce her birinin **adını ve rengini** içinden söyle: "turuncu üçgen, yeşil baklava...".
2. Yerleri hatırlamak için ızgarayı sıra sıra tara ve kısa cümleler kur: "üst sırada ..., alt sırada ...".
3. Sarı kutu **orta sıranın orta kutusu**. Orada **turuncu üçgen** vardı.
4. Diğer şıklar ya başka kutulardaki şekiller ya da rengi farklı bir şekil; yerine dikkat eden onları eler.
5. Doğru cevap **B**.



## Soru 24 · Cevap B

1. Şekiller görününce her birinin **adını ve rengini** içinden söyle: "kırmızı kalp, sarı yıldız...".
2. Yerleri hatırlamak için ızgarayı sıra sıra tara ve kısa cümleler kur: "üst sırada ..., alt sırada ...".
3. Sarı kutu **üst sıranın sağ kutusu**. Orada **kırmızı kalp** vardı.
4. Diğer şıklar ya başka kutulardaki şekiller ya da rengi farklı bir şekil; yerine dikkat eden onları eler.
5. Doğru cevap **B**.

# En sık yapılan hatalar

**Rengi tutan ama şekli tutmayan taşı seçmek:** Yeşil yıldız gösterildiyse mor yıldız tuzaktır. Renk ve şekli birlikte hatırlayın.

**Tersten istendiğinde düz sırayı seçmek:** Sorunun "tersten" dediğini kaçırmak en sık hatadır.

**Yakın sayıların yerini karıştırmak:** Şıklarda iki sayının yeri değiştirilmiş diziler bulunur; grupları tek tek karşılaştırın.

**Hepsini tek tek ezberlemeye çalışmak:** Gruplamadan ezberlemek belleği hızla doldurur; ikişerli gruplar çok daha kolaydır.

# Evde 10 dakika

Masaya beş oyuncak dizin, çocuğunuz 10 saniye baksın. Sonra üstünü bir örtüyle kapatın ve gizlice birini alın; örtüyü kaldırınca **hangisinin eksik olduğunu** bulsun. Zorlaştırmak için oyuncakların yerini de sorun: "Kırmızı araba neredeydi?"

Sayı dizisi için arabada ya da sofrada oynayın: siz 3-4 sayı söyleyin, çocuğunuz önce aynı sırayla, sonra sondan başa doğru tekrar etsin. Günde 10 dakika yeterli; ikişerli gruplamayı birlikte deneyin ve oyunu her zaman eğlenceli bir yerde bitirin.

# Cevap anahtarı

| | | | | | |
|---|---|---|---|---|---|
| 1. **C** | 2. **C** | 3. **B** | 4. **B** | 5. **A** | 6. **C** |
| 7. **B** | 8. **B** | 9. **C** | 10. **D** | 11. **D** | 12. **C** |
| 13. **C** | 14. **B** | 15. **B** | 16. **B** | 17. **D** | 18. **D** |
| 19. **A** | 20. **A** | 21. **B** | 22. **D** | 23. **B** | 24. **B** |

1-8 Isınma · 9-16 Orta · 17-24 Zor



**Görsel bellek ve sayı dizisi sorularını bir de oyunda deneyin**

**Hilmi ve Zaman Rüzgârı**, BİLSEM tarzı 20 soru tipini dinozorlu bir zaman yolculuğunun içine yerleştirir. Reklam yok, abonelik yok, internetsiz çalışır. App Store ve Google Play'de "Hilmi BİLSEM" diye aratın.

**Video ders ve sınırsız pratik**

Görsel bellek ve sayı dizisi konu anlatımı videosu, her seferinde yeni sorular üreten pratik ve diğer 12 konu: **tamakalagames.com/rehber/bilsem/**

© 2026 Tamakala Games. Kişisel ve sınıf içi kullanım için ücretsizdir; satılamaz. Sorular özgündür; gerçek ya da çıkmış sınav soruları değildir. Tamakala Games'in MEB veya BİLSEM ile resmî bir bağlantısı yoktur ve sonuç garantisi vermez.