Ücretsiz · Çözümlü · Yazdırılabilir

BİLSEM Şekil sayma Soruları

Konu özeti, 4 tam çözümlü örnek, 3 seviyede 24 alıştırma ve her sorunun adım adım çözümü

1. sınıf | 2. sınıf | 3. sınıf

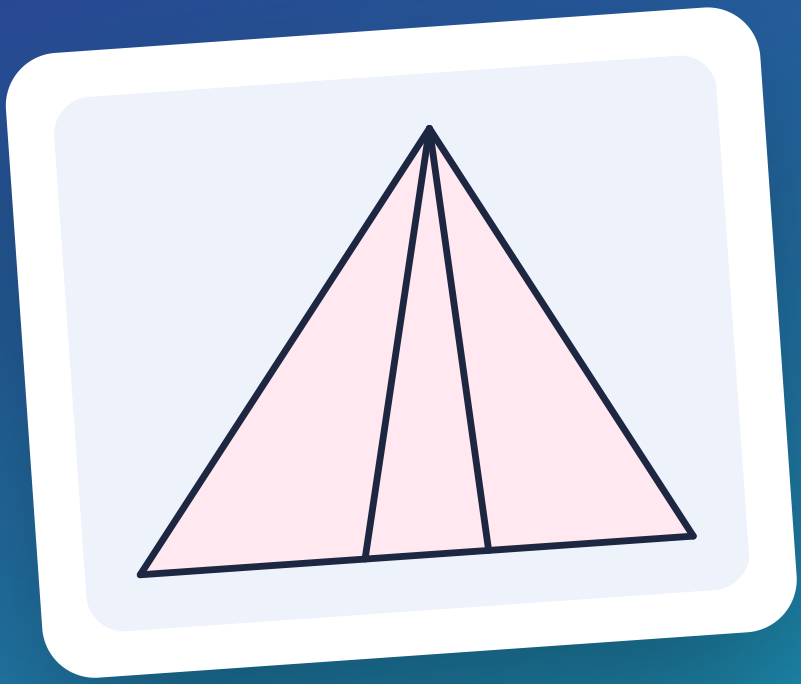

Tamakala Games · Hilmi ve Zaman Rüzgârı
Video ders ve sınırsız pratik: tamakalagames.com/rehber/bilsem/sekil-sayma-sorulari/

Bu kitapçık nasıl kullanılır?

Sevgili veli, bu kitapçık çocuğunuzun şekil sayma sorularında **nasıl düşüneceğini** öğrenmesi için hazırlandı. Amaç çok soru çözmek değil, kuralı görmeyi alışkanlık hâline getirmektir.

1. **Günde 10 dakika, 3-4 soru** yeterli. Yorulduğunda bırakın.
2. Önce **konu özeti**ni ve **çözümlü örnekler**i birlikte okuyun (sayfa 3-6).
3. Alıştırmalar üç seviyededir: **Isınma** (1. sınıf düzeyi), **Orta** (2. sınıf), **Zor** (3. sınıf). Çocuğunuzun düzeyinden başlayın.
4. Çocuk cevabını yazdıktan sonra **nasıl düşündüğünü** kendi cümlesiyle anlatsın. Bu, doğru cevaptan daha önemlidir.
5. Çözümler sayfa 19-26'da, cevap anahtarı son sayfada.

Sınırsız pratik: tamakalagames.com/rehber/bilsem/sekil-sayma-sorulari/ sayfasında aynı konudan her seferinde yeni sorular çözebilir, anında geri bildirim ve adım adım çözüm görebilirsiniz.

İçindekiler

1 Konu özeti ve kurallar · s. 3
2 Adım adım çözüm yolu · s. 4
3 Çözümlü örnekler · s. 5-6
4 Isınma alıştırmaları · s. 7-10
5 Orta alıştırmalar · s. 11-14
6 Zor alıştırmalar · s. 15-18
7 Açıklamalı çözümler · s. 19-26
8 Sık hatalar, cevap anahtarı · s. 27-28

Bu kitapçıktaki sorular Tamakala Games tarafından hazırlanmış **özgün hazırlık sorularıdır**; gerçek ya da çıkmış sınav soruları değildir. Tamakala Games'in MEB veya BİLSEM ile resmî bir bağlantısı yoktur.

Şekil sayma sorusu nedir?

Bu türde iki tip soru öne çıkar. Birincisinde karışık bir resimde **şartlara uyan** şekiller sayılır: "Kaç tane yeşil üçgen var?" gibi. Burada hem rengin hem şeklin tutması gerekir. İkincisinde bir tablo ya da çizim verilir ve "Kaç kare var?" diye sorulur.

"Kaç kare var" sorularının püf noktası, küçük karelerin birleşerek **daha büyük kareler** oluşturmasıdır. 2×2'lik bir tabloda 4 küçük kare ve 1 büyük kare, yani 5 kare vardır; 3×3'lük tabloda 9 + 4 + 1 = 14 kare.

Sınıflara göre

- **1. sınıf:** Tek şartlı sayma (yalnızca şekil ya da yalnızca renk) ve 2×2'lik tablolarda kare sayma.
- **2. sınıf:** İki şartlı sayma (renk ve şekil birlikte) ve 2×3 ya da 3×3'lük tablolarda kare sayma.
- **3. sınıf:** Kalabalık, üst üste binen şekiller ve daha büyük tablolar; farklı boyutlardaki kareleri sistemli saymak gerekir.

Kural türleri

Önce neyi saydığınızı belirleyin

"Yeşil üçgen" diyorsa hem renk hem şekil tutmalı; mavi üçgen de yeşil daire de sayılmaz.

Bir yön seçin

Soldan sağa, yukarıdan aşağı sayın; böylece hiçbir şekil atlanmaz.

Saydığınızı işaretleyin

Parmağınızla ya da aklınızda işaretleyin; aynı şekli iki kez saymayın.

Küçükten büyüğe

Kaç kare var sorularında önce küçük kareler, sonra 2×2'likler, en son en büyük kare.

Adım adım çözüm yolu

1. **Soruyu iki kez okuyun.** Neyi sayacağınızı (renk ve şekil) sesli söyleyin.
2. **Başlangıç noktası seçin.** Sol üst köşeden başlayın.
3. **Satır satır ilerleyin.** Her satırda şartlara uyan şekilleri sayıp bir yere yazın.
4. **Kare sorularında boyuta göre sayın.** Önce 1×1, sonra 2×2, sonra daha büyük kareler.
5. **Toplayın.** Satırların ya da boyutların sayılarını toplayın.
6. **Kontrol edin.** Farklı bir yönden (yukarıdan aşağı) bir kez daha sayın.

Birlikte çözelim

★ **Şekilde kaç üçgen var?**

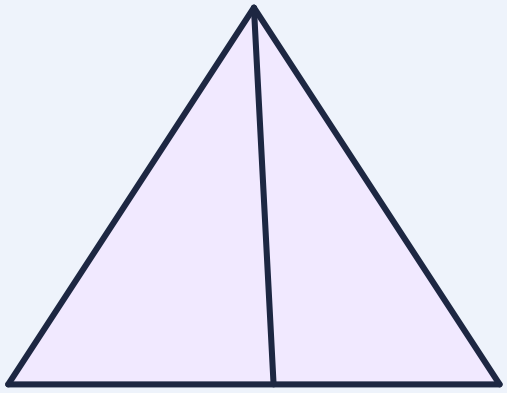

A) 2
B) 4
C) 1
D) 3

Çözümlü örnek · Isınma (1. sınıf)

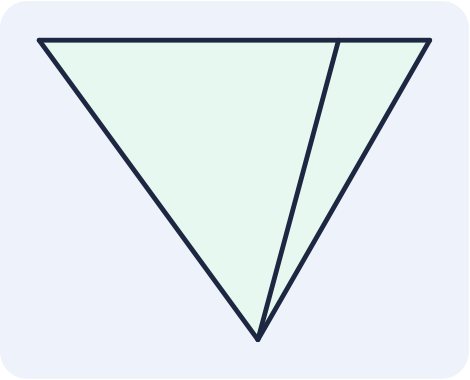

Şekilde kaç üçgen var?

- A) 4
- B) 2
- **C) 3**
- D) 5

1. Yalnız en küçük parçaları sayma! Küçük parçalar birleşince yeni ve daha büyük üçgenler oluşur. Düzenli say: önce teker teker, sonra ikişer, üçer birleşenler.
2. Tek parçalı (en küçük) üçgen: **2** tane.
3. Birleşerek oluşanlar: 2 parçalı **1**.
4. Hepsini topla: 2 + 1 = **3**. Yalnız küçük parçaları sayan 2 der; bu eksik olur.
5. Doğru cevap **C**.

Çözümlü örnek · Orta (2. sınıf)

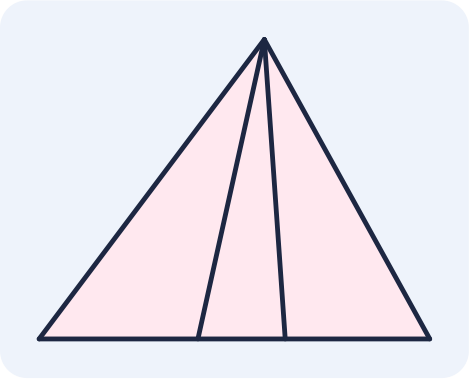

Şekilde kaç üçgen var?

- **A) 6**
- B) 4
- C) 5
- D) 3

1. Yalnız en küçük parçaları sayma! Küçük parçalar birleşince yeni ve daha büyük üçgenler oluşur. Düzenli say: önce teker teker, sonra ikişer, üçer birleşenler.
2. Tek parçalı (en küçük) üçgen: **3** tane.
3. Birleşerek oluşanlar: 2 parçalı **2**, 3 parçalı **1**.
4. Hepsini topla: 3 + 2 + 1 = **6**. Yalnız küçük parçaları sayan 3 der; bu eksik olur.
5. Doğru cevap **A**.

Çözümlü örnek · Orta (2. sınıf)

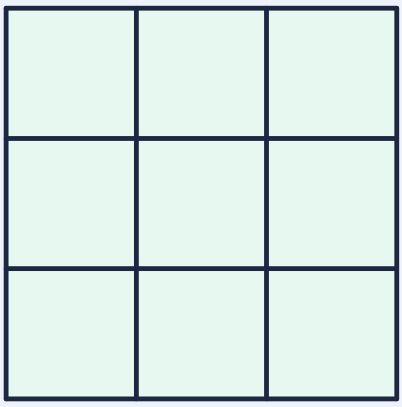

Şekilde kaç kare var?

A) 16 B) 14 C) 9 D) 13

1. Yalnız en küçük parçaları sayma! Küçük parçalar birleşince yeni ve daha büyük kareler oluşur. Düzenli say: önce teker teker, sonra ikişer, üçer birleşenler.
2. Tek parçalı (en küçük) kare: **9** tane.
3. Birleşerek oluşanlar: 4 parçalı **4**, 9 parçalı **1**.
4. Hepsini topla: 9 + 4 + 1 = **14**. Yalnız küçük parçaları sayan 9 der; bu eksik olur.
5. Doğru cevap **B**.

Çözümlü örnek · Zor (3. sınıf)

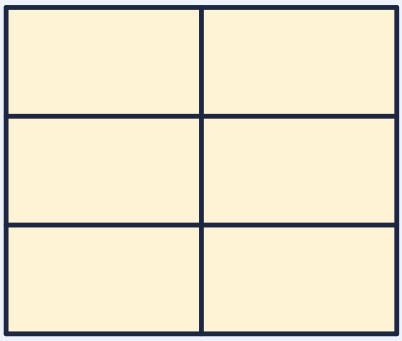

Şekilde kaç dikdörtgen var?

A) 20 B) 16 C) 6 D) 18

1. Yalnız en küçük parçaları sayma! Küçük parçalar birleşince yeni ve daha büyük dikdörtgenler oluşur. Düzenli say: önce teker teker, sonra ikişer, üçer birleşenler. (Bu şekildeki dikdörtgenlerin hiçbiri kare değil.)
2. Tek parçalı (en küçük) dikdörtgen: **6** tane.
3. Birleşerek oluşanlar: 2 parçalı **7**, 3 parçalı **2**, 4 parçalı **2**, 6 parçalı **1**.
4. Hepsini topla: 6 + 7 + 2 + 2 + 1 = **18**. Yalnız küçük parçaları sayan 6 der; bu eksik olur.
5. Doğru cevap **D**.

1 **Şekilde kaç dikdörtgen var?**



A 6
B 8
C 5
D 3

Cevabın: _____ Nasıl düşündün? _____

2 **Şekilde kaç üçgen var?**

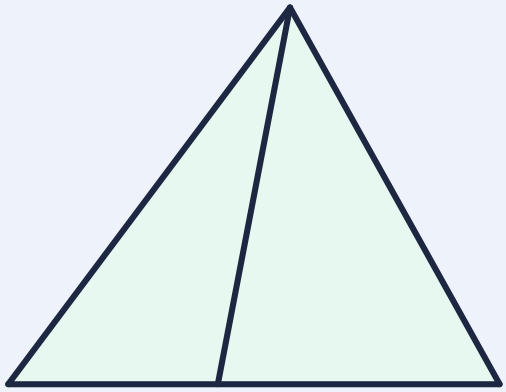

A 3
B 4
C 2
D 1

Cevabın: _____ Nasıl düşündün? _____

3 Şekilde kaç kare var?



A 3
B 4
C 7
D 5

Cevabın: _____ Nasıl düşündün? _____

4 Şekilde kaç üçgen var?

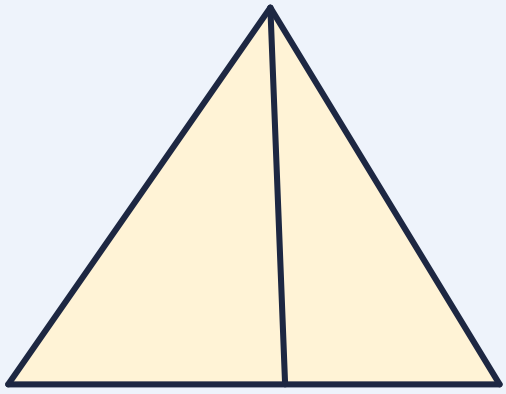

A 5
B 3
C 2
D 4

Cevabın: _____ Nasıl düşündün? _____

5 **Şekilde kaç üçgen var?**

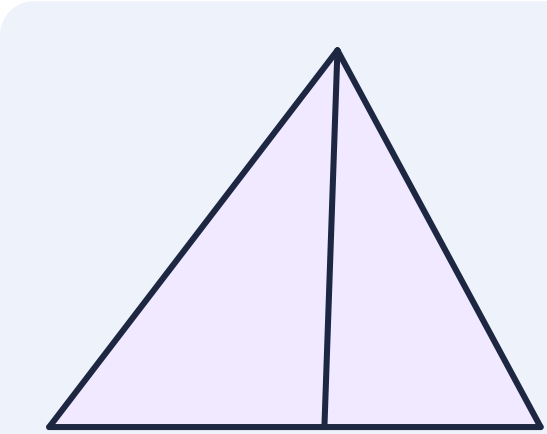

A 5
B 1
C 2
D 3

Cevabın: _____ Nasıl düşündün? _____

6 **Şekilde kaç dikdörtgen var?**



A 1
B 2
C 5
D 3

Cevabın: _____ Nasıl düşündün? _____

7 Şekilde kaç üçgen var?

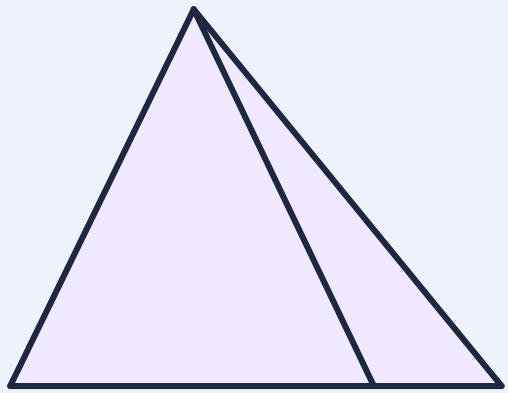

A 2
B 3
C 1
D 5

Cevabın: _____ Nasıl düşündün? _____

8 Şekilde kaç üçgen var?

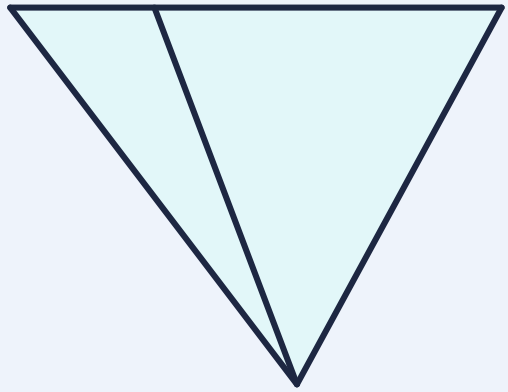

A 5
B 3
C 2
D 1

Cevabın: _____ Nasıl düşündün? _____

9 **Şekilde kaç kare var?**

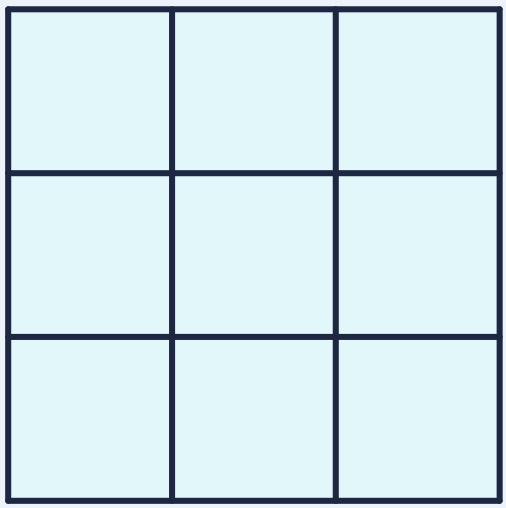

A 13
B 15
C 14
D 9

Cevabın: _____ Nasıl düşündün? _____

10 **Şekilde kaç üçgen var?**

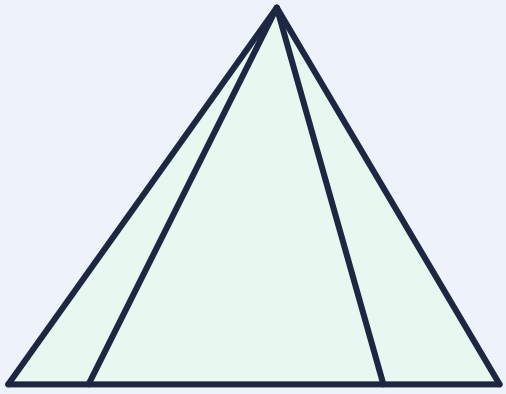

A 3
B 5
C 8
D 6

Cevabın: _____ Nasıl düşündün? _____

11 **Şekilde kaç dikdörtgen var?**

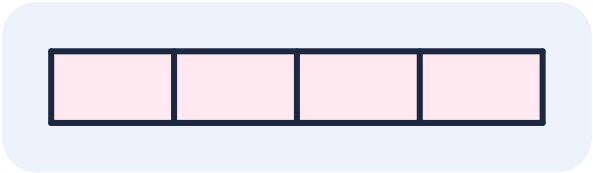

A 10
B 9
C 8
D 4

Cevabın: _____ Nasıl düşündün? _____

12 **Şekilde kaç dikdörtgen var?**

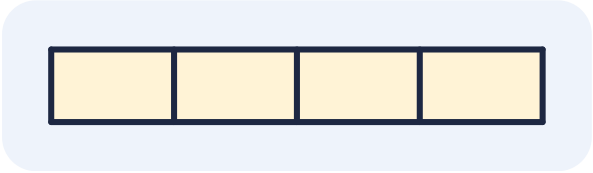

A 4
B 10
C 11
D 9

Cevabın: _____ Nasıl düşündün? _____

13 Şekilde kaç üçgen var?

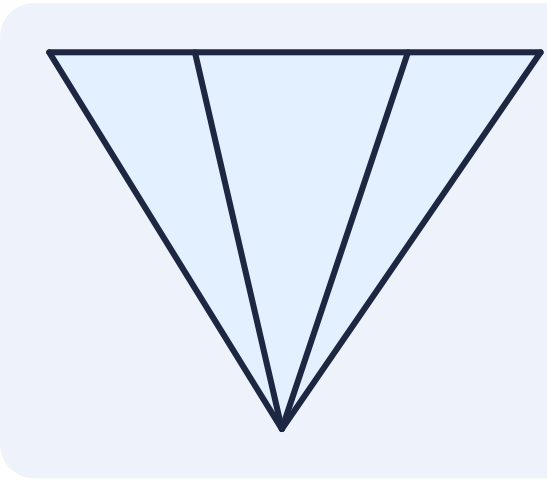

A 3
B 5
C 6
D 7

Cevabın: _____ Nasıl düşündün? _____

14 Şekilde kaç kare var?

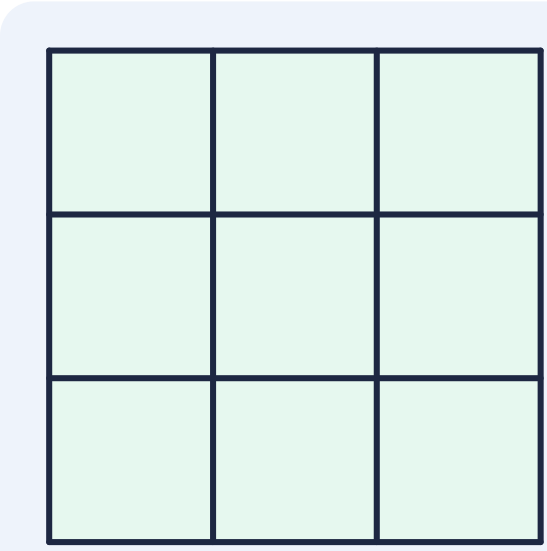

A 16
B 9
C 12
D 14

Cevabın: _____ Nasıl düşündün? _____

15 **Şekilde kaç kare var?**

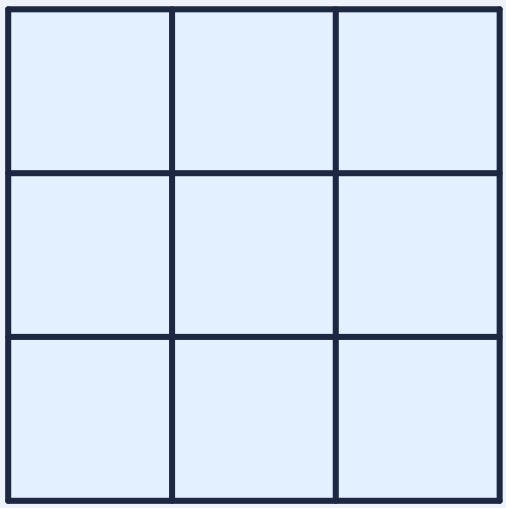

A 9
B 15
C 14
D 13

Cevabın: _____ Nasıl düşündün? _____

16 **Şekilde kaç üçgen var?**

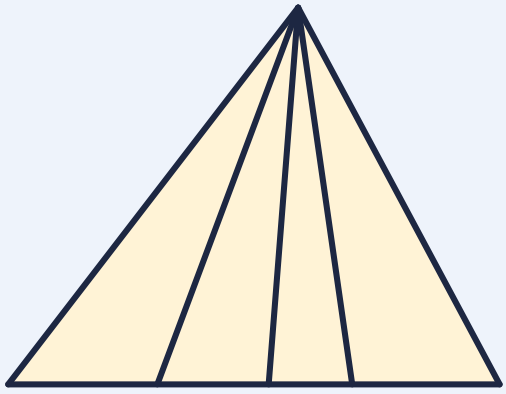

A 8
B 10
C 11
D 4

Cevabın: _____ Nasıl düşündün? _____

17 **Şekilde kaç dikdörtgen var?**

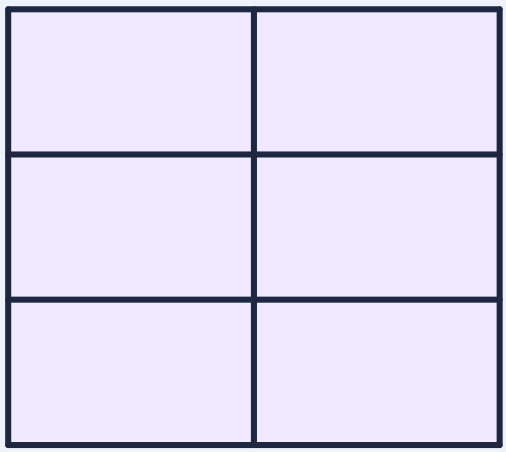

A 17
B 18
C 6
D 20

Cevabın: _____ Nasıl düşündün? _____

18 **Şekilde kaç üçgen var?**

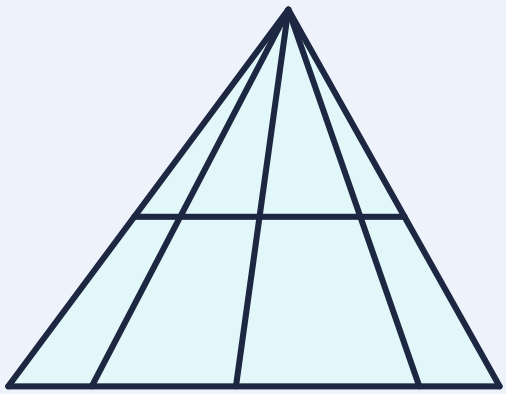

A 20
B 4
C 22
D 18

Cevabın: _____ Nasıl düşündün? _____

19 **Şekilde kaç üçgen var?**

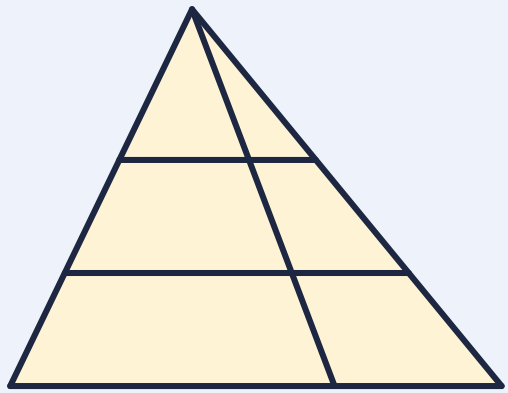

A 10
B 11
C 9
D 2

Cevabın: _____ Nasıl düşündün? _____

20 **Şekilde kaç kare var?**

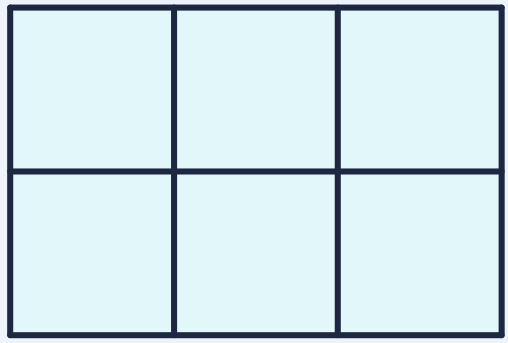

A 6
B 10
C 8
D 7

Cevabın: _____ Nasıl düşündün? _____

21 **Şekilde kaç üçgen var?**

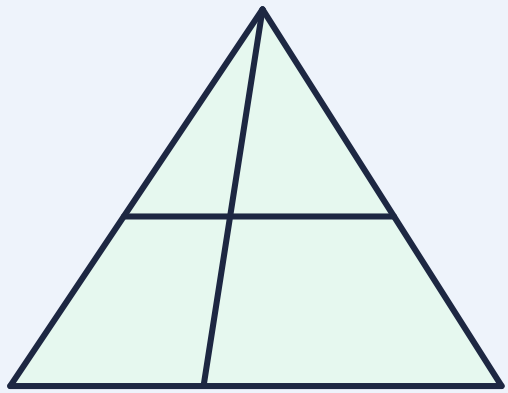

A 8
B 6
C 7
D 2

Cevabın: _____ Nasıl düşündün? _____

22 **Şekilde kaç kare var?**

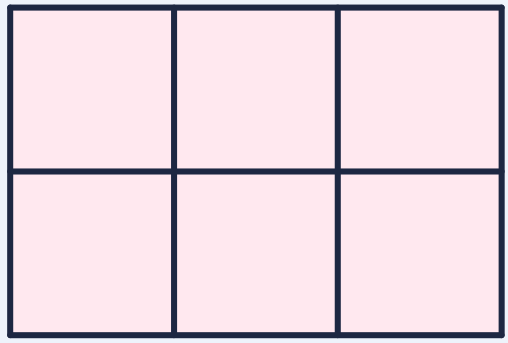

A 8
B 10
C 6
D 7

Cevabın: _____ Nasıl düşündün? _____

23 **Şekilde kaç dikdörtgen var?**

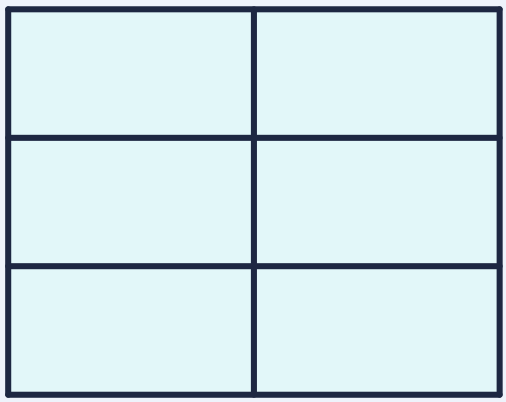

A 18
B 6
C 17
D 19

Cevabın: _____ Nasıl düşündün? _____

24 **Şekilde kaç kare var?**

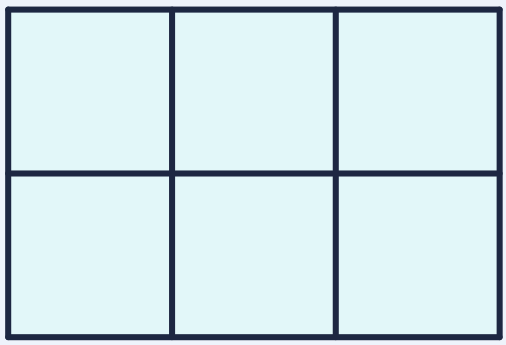

A 9
B 10
C 8
D 6

Cevabın: _____ Nasıl düşündün? _____

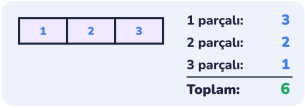

Soru 1 · Cevap A

1. Yalnız en küçük parçaları sayma! Küçük parçalar birleşince yeni ve daha büyük dikdörtgenler oluşur. Düzenli say: önce teker teker, sonra ikişer, üçer birleşenler. (Bu şekildeki dikdörtgenlerin hiçbiri kare değil.)
2. Tek parçalı (en küçük) dikdörtgen: **3** tane.
3. Birleşerek oluşanlar: 2 parçalı **2**, 3 parçalı **1**.
4. Hepsini topla: 3 + 2 + 1 = **6**. Yalnız küçük parçaları sayan 3 der; bu eksik olur.
5. Doğru cevap **A**.

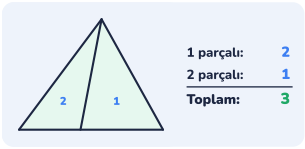

Soru 2 · Cevap A

1. Yalnız en küçük parçaları sayma! Küçük parçalar birleşince yeni ve daha büyük üçgenler oluşur. Düzenli say: önce teker teker, sonra ikişer, üçer birleşenler.
2. Tek parçalı (en küçük) üçgen: **2** tane.
3. Birleşerek oluşanlar: 2 parçalı **1**.
4. Hepsini topla: 2 + 1 = **3**. Yalnız küçük parçaları sayan 2 der; bu eksik olur.
5. Doğru cevap **A**.

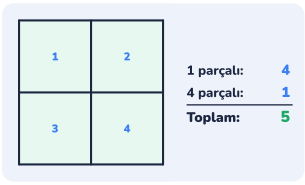

Soru 3 · Cevap D

1. Yalnız en küçük parçaları sayma! Küçük parçalar birleşince yeni ve daha büyük kareler oluşur. Düzenli say: önce teker teker, sonra ikişer, üçer birleşenler.
2. Tek parçalı (en küçük) kare: **4** tane.
3. Birleşerek oluşanlar: 4 parçalı **1**.
4. Hepsini topla: 4 + 1 = **5**. Yalnız küçük parçaları sayan 4 der; bu eksik olur.
5. Doğru cevap **D**.

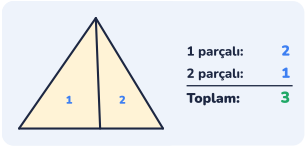

Soru 4 · Cevap B

1. Yalnız en küçük parçaları sayma! Küçük parçalar birleşince yeni ve daha büyük üçgenler oluşur. Düzenli say: önce teker teker, sonra ikişer, üçer birleşenler.
2. Tek parçalı (en küçük) üçgen: **2** tane.
3. Birleşerek oluşanlar: 2 parçalı **1**.
4. Hepsini topla: 2 + 1 = **3**. Yalnız küçük parçaları sayan 2 der; bu eksik olur.
5. Doğru cevap **B**.

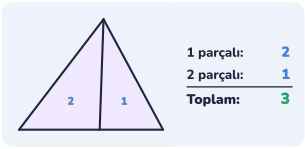

Soru 5 · Cevap D

1. Yalnız en küçük parçaları sayma! Küçük parçalar birleşince yeni ve daha büyük üçgenler oluşur. Düzenli say: önce teker teker, sonra ikişer, üçer birleşenler.
2. Tek parçalı (en küçük) üçgen: **2** tane.
3. Birleşerek oluşanlar: 2 parçalı **1**.
4. Hepsini topla: 2 + 1 = **3**. Yalnız küçük parçaları sayan 2 der; bu eksik olur.
5. Doğru cevap **D**.

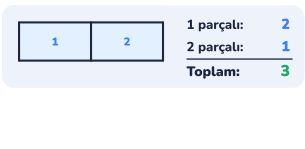

Soru 6 · Cevap D

1. Yalnız en küçük parçaları sayma! Küçük parçalar birleşince yeni ve daha büyük dikdörtgenler oluşur. Düzenli say: önce teker teker, sonra ikişer, üçer birleşenler. (Bu şekildeki dikdörtgenlerin hiçbiri kare değil.)
2. Tek parçalı (en küçük) dikdörtgen: **2** tane.
3. Birleşerek oluşanlar: 2 parçalı **1**.
4. Hepsini topla: 2 + 1 = **3**. Yalnız küçük parçaları sayan 2 der; bu eksik olur.
5. Doğru cevap **D**.

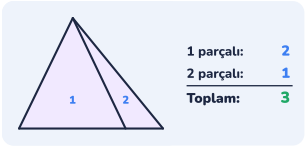

Soru 7 · Cevap B

1. Yalnız en küçük parçaları sayma! Küçük parçalar birleşince yeni ve daha büyük üçgenler oluşur. Düzenli say: önce teker teker, sonra ikişer, üçer birleşenler.
2. Tek parçalı (en küçük) üçgen: **2** tane.
3. Birleşerek oluşanlar: 2 parçalı **1**.
4. Hepsini topla: 2 + 1 = **3**. Yalnız küçük parçaları sayan 2 der; bu eksik olur.
5. Doğru cevap **B**.

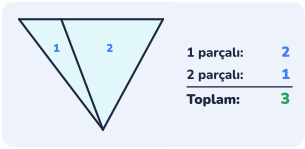

Soru 8 · Cevap B

1. Yalnız en küçük parçaları sayma! Küçük parçalar birleşince yeni ve daha büyük üçgenler oluşur. Düzenli say: önce teker teker, sonra ikişer, üçer birleşenler.
2. Tek parçalı (en küçük) üçgen: **2** tane.
3. Birleşerek oluşanlar: 2 parçalı **1**.
4. Hepsini topla: 2 + 1 = **3**. Yalnız küçük parçaları sayan 2 der; bu eksik olur.
5. Doğru cevap **B**.

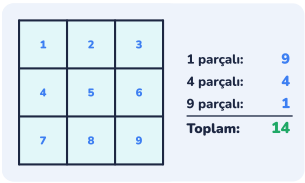

Soru 9 · Cevap C

1. Yalnız en küçük parçaları sayma! Küçük parçalar birleşince yeni ve daha büyük kareler oluşur. Düzenli say: önce teker teker, sonra ikişer, üçer birleşenler.
2. Tek parçalı (en küçük) kare: **9** tane.
3. Birleşerek oluşanlar: 4 parçalı **4**, 9 parçalı **1**.
4. Hepsini topla: 9 + 4 + 1 = **14**. Yalnız küçük parçaları sayan 9 der; bu eksik olur.
5. Doğru cevap **C**.

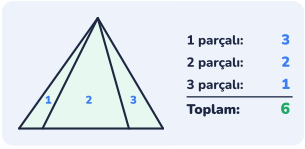

Soru 10 · Cevap D

1. Yalnız en küçük parçaları sayma! Küçük parçalar birleşince yeni ve daha büyük üçgenler oluşur. Düzenli say: önce teker teker, sonra ikişer, üçer birleşenler.
2. Tek parçalı (en küçük) üçgen: **3** tane.
3. Birleşerek oluşanlar: 2 parçalı **2**, 3 parçalı **1**.
4. Hepsini topla: 3 + 2 + 1 = **6**. Yalnız küçük parçaları sayan 3 der; bu eksik olur.
5. Doğru cevap **D**.

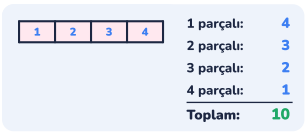

Soru 11 · Cevap A

1. Yalnız en küçük parçaları sayma! Küçük parçalar birleşince yeni ve daha büyük dikdörtgenler oluşur. Düzenli say: önce teker teker, sonra ikişer, üçer birleşenler. (Bu şekildeki dikdörtgenlerin hiçbiri kare değil.)
2. Tek parçalı (en küçük) dikdörtgen: **4** tane.
3. Birleşerek oluşanlar: 2 parçalı **3**, 3 parçalı **2**, 4 parçalı **1**.
4. Hepsini topla: 4 + 3 + 2 + 1 = **10**. Yalnız küçük parçaları sayan 4 der; bu eksik olur.
5. Doğru cevap **A**.

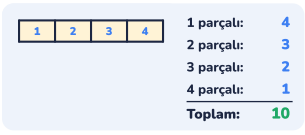

Soru 12 · Cevap B

1. Yalnız en küçük parçaları sayma! Küçük parçalar birleşince yeni ve daha büyük dikdörtgenler oluşur. Düzenli say: önce teker teker, sonra ikişer, üçer birleşenler. (Bu şekildeki dikdörtgenlerin hiçbiri kare değil.)
2. Tek parçalı (en küçük) dikdörtgen: **4** tane.
3. Birleşerek oluşanlar: 2 parçalı **3**, 3 parçalı **2**, 4 parçalı **1**.
4. Hepsini topla: 4 + 3 + 2 + 1 = **10**. Yalnız küçük parçaları sayan 4 der; bu eksik olur.
5. Doğru cevap **B**.

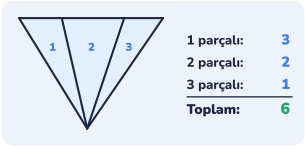

Soru 13 · Cevap C

1. Yalnız en küçük parçaları sayma! Küçük parçalar birleşince yeni ve daha büyük üçgenler oluşur. Düzenli say: önce teker teker, sonra ikişer, üçer birleşenler.
2. Tek parçalı (en küçük) üçgen: **3** tane.
3. Birleşerek oluşanlar: 2 parçalı **2**, 3 parçalı **1**.
4. Hepsini topla: 3 + 2 + 1 = **6**. Yalnız küçük parçaları sayan 3 der; bu eksik olur.
5. Doğru cevap **C**.

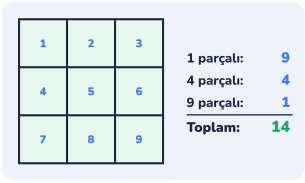

Soru 14 · Cevap D

1. Yalnız en küçük parçaları sayma! Küçük parçalar birleşince yeni ve daha büyük kareler oluşur. Düzenli say: önce teker teker, sonra ikişer, üçer birleşenler.
2. Tek parçalı (en küçük) kare: **9** tane.
3. Birleşerek oluşanlar: 4 parçalı **4**, 9 parçalı **1**.
4. Hepsini topla: 9 + 4 + 1 = **14**. Yalnız küçük parçaları sayan 9 der; bu eksik olur.
5. Doğru cevap **D**.

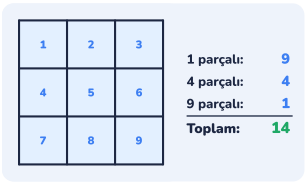

Soru 15 · Cevap C

1. Yalnız en küçük parçaları sayma! Küçük parçalar birleşince yeni ve daha büyük kareler oluşur. Düzenli say: önce teker teker, sonra ikişer, üçer birleşenler.
2. Tek parçalı (en küçük) kare: **9** tane.
3. Birleşerek oluşanlar: 4 parçalı **4**, 9 parçalı **1**.
4. Hepsini topla: 9 + 4 + 1 = **14**. Yalnız küçük parçaları sayan 9 der; bu eksik olur.
5. Doğru cevap **C**.

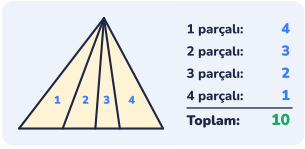

Soru 16 · Cevap B

1. Yalnız en küçük parçaları sayma! Küçük parçalar birleşince yeni ve daha büyük üçgenler oluşur. Düzenli say: önce teker teker, sonra ikişer, üçer birleşenler.
2. Tek parçalı (en küçük) üçgen: **4** tane.
3. Birleşerek oluşanlar: 2 parçalı **3**, 3 parçalı **2**, 4 parçalı **1**.
4. Hepsini topla: 4 + 3 + 2 + 1 = **10**. Yalnız küçük parçaları sayan 4 der; bu eksik olur.
5. Doğru cevap **B**.

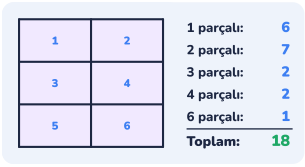

Soru 17 · Cevap B

1. Yalnız en küçük parçaları sayma! Küçük parçalar birleşince yeni ve daha büyük dikdörtgenler oluşur. Düzenli say: önce teker teker, sonra ikişer, üçer birleşenler. (Bu şekildeki dikdörtgenlerin hiçbiri kare değil.)
2. Tek parçalı (en küçük) dikdörtgen: **6** tane.
3. Birleşerek oluşanlar: 2 parçalı **7**, 3 parçalı **2**, 4 parçalı **2**, 6 parçalı **1**.
4. Hepsini topla: 6 + 7 + 2 + 2 + 1 = **18**. Yalnız küçük parçaları sayan 6 der; bu eksik olur.
5. Doğru cevap **B**.

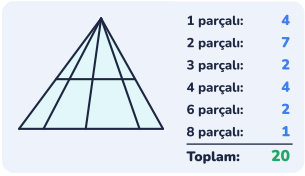

Soru 18 · Cevap A

1. Yalnız en küçük parçaları sayma! Küçük parçalar birleşince yeni ve daha büyük üçgenler oluşur. Düzenli say: önce teker teker, sonra ikişer, üçer birleşenler.
2. Tek parçalı (en küçük) üçgen: **4** tane.
3. Birleşerek oluşanlar: 2 parçalı **7**, 3 parçalı **2**, 4 parçalı **4**, 6 parçalı **2**, 8 parçalı **1**.
4. Hepsini topla: 4 + 7 + 2 + 4 + 2 + 1 = **20**. Yalnız küçük parçaları sayan 4 der; bu eksik olur.
5. Doğru cevap **A**.

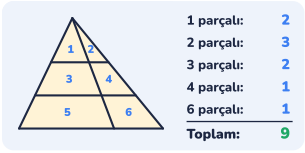

Soru 19 · Cevap C

1. Yalnız en küçük parçaları sayma! Küçük parçalar birleşince yeni ve daha büyük üçgenler oluşur. Düzenli say: önce teker teker, sonra ikişer, üçer birleşenler.
2. Tek parçalı (en küçük) üçgen: **2** tane.
3. Birleşerek oluşanlar: 2 parçalı **3**, 3 parçalı **2**, 4 parçalı **1**, 6 parçalı **1**.
4. Hepsini topla: 2 + 3 + 2 + 1 + 1 = **9**. Yalnız küçük parçaları sayan 2 der; bu eksik olur.
5. Doğru cevap **C**.



Soru 20 · Cevap C

1. Yalnız en küçük parçaları sayma! Küçük parçalar birleşince yeni ve daha büyük kareler oluşur. Düzenli say: önce teker teker, sonra ikişer, üçer birleşenler.
2. Tek parçalı (en küçük) kare: **6** tane.
3. Birleşerek oluşanlar: 4 parçalı **2**.
4. Hepsini topla: 6 + 2 = **8**. Yalnız küçük parçaları sayan 6 der; bu eksik olur.
5. Doğru cevap **C**.

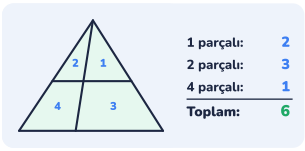

Soru 21 · Cevap B

1. Yalnız en küçük parçaları sayma! Küçük parçalar birleşince yeni ve daha büyük üçgenler oluşur. Düzenli say: önce teker teker, sonra ikişer, üçer birleşenler.
2. Tek parçalı (en küçük) üçgen: **2** tane.
3. Birleşerek oluşanlar: 2 parçalı **3**, 4 parçalı **1**.
4. Hepsini topla: 2 + 3 + 1 = **6**. Yalnız küçük parçaları sayan 2 der; bu eksik olur.
5. Doğru cevap **B**.

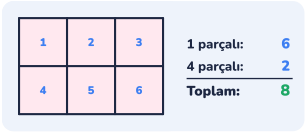

Soru 22 · Cevap A

1. Yalnız en küçük parçaları sayma! Küçük parçalar birleşince yeni ve daha büyük kareler oluşur. Düzenli say: önce teker teker, sonra ikişer, üçer birleşenler.
2. Tek parçalı (en küçük) kare: **6** tane.
3. Birleşerek oluşanlar: 4 parçalı **2**.
4. Hepsini topla: 6 + 2 = **8**. Yalnız küçük parçaları sayan 6 der; bu eksik olur.
5. Doğru cevap **A**.

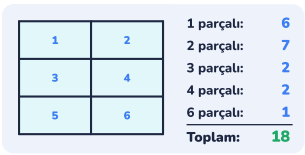

Soru 23 · Cevap A

1. Yalnız en küçük parçaları sayma! Küçük parçalar birleşince yeni ve daha büyük dikdörtgenler oluşur. Düzenli say: önce teker teker, sonra ikişer, üçer birleşenler. (Bu şekildeki dikdörtgenlerin hiçbiri kare değil.)
2. Tek parçalı (en küçük) dikdörtgen: **6** tane.
3. Birleşerek oluşanlar: 2 parçalı **7**, 3 parçalı **2**, 4 parçalı **2**, 6 parçalı **1**.
4. Hepsini topla: 6 + 7 + 2 + 2 + 1 = **18**. Yalnız küçük parçaları sayan 6 der; bu eksik olur.
5. Doğru cevap **A**.



Soru 24 · Cevap C

1. Yalnız en küçük parçaları sayma! Küçük parçalar birleşince yeni ve daha büyük kareler oluşur. Düzenli say: önce teker teker, sonra ikişer, üçer birleşenler.
2. Tek parçalı (en küçük) kare: **6** tane.
3. Birleşerek oluşanlar: 4 parçalı **2**.
4. Hepsini topla: 6 + 2 = **8**. Yalnız küçük parçaları sayan 6 der; bu eksik olur.
5. Doğru cevap **C**.

En sık yapılan hatalar

Yalnızca küçük kareleri saymak: 3×3 tabloda 9 diyen çocuk 2×2'lik kareleri ve en büyük kareyi unutmuştur. Doğrusu 14.

Şartlardan birini unutmak: "Yeşil üçgen" sorulunca bütün üçgenleri saymak tipik bir hatadır.

Düzensiz saymak: Gelişigüzel sayan çocuk bazı şekilleri iki kez sayar, bazılarını atlar.

Üst üste binen şekilleri kaçırmak: Bir şeklin bir kısmı öbürünün altında kalabilir; kenar çizgilerini takip edin.

Evde 10 dakika

Kareli kâğıda 2 satır, 3 sütunluk bir tablo çizin ve birlikte kaç kare olduğunu sayın: önce küçükleri, sonra 2×2'likleri. Her bulduğunuz büyük kareyi farklı renk kalemle çerçeveleyin; çocuğunuz **büyük karelerin nasıl oluştuğunu** gözüyle görsün.

Dergi ya da kitap sayfalarında "kaç tane kırmızı daire var?" gibi şartlı sayma oyunları oynayın. Günde 10 dakika yeterli; hızdan çok, çocuğunuzun **sırayla ve işaretleyerek** saymasını önemseyin.

Cevap anahtarı

1. **A**	2. **A**	3. **D**	4. **B**	5. **D**	6. **D**
7. **B**	8. **B**	9. **C**	10. **D**	11. **A**	12. **B**
13. **C**	14. **D**	15. **C**	16. **B**	17. **B**	18. **A**
19. **C**	20. **C**	21. **B**	22. **A**	23. **A**	24. **C**

1-8 Isınma · 9-16 Orta · 17-24 Zor



Şekil sayma sorularını bir de oyunda deneyin

Hilmi ve Zaman Rüzgârı, BİLSEM tarzı 20 soru tipini dinozorlu bir zaman yolculuğunun içine yerleştirir. Reklam yok, abonelik yok, internetsiz çalışır. App Store ve Google Play'de "Hilmi BİLSEM" diye aratın.

Video ders ve sınırsız pratik

Şekil sayma konu anlatımı videosu, her seferinde yeni sorular üreten pratik ve diğer 12 konu: **tamakalagames.com/rehber/bilsem/**

© 2026 Tamakala Games. Kişisel ve sınıf içi kullanım için ücretsizdir; satılamaz. Sorular özgündür; gerçek ya da çıkmış sınav soruları değildir. Tamakala Games'in MEB veya BİLSEM ile resmî bir bağlantısı yoktur ve sonuç garantisi vermez.